Выполните чертежи

Выполните чертеж предмета в трех видах, если известны его главный вид и габариты двух других видов.

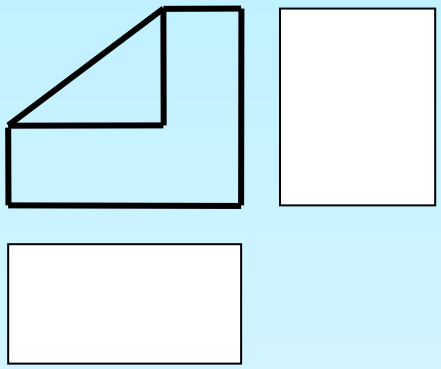

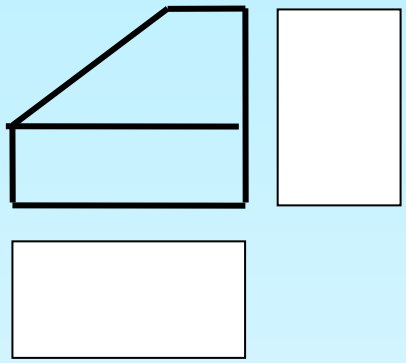

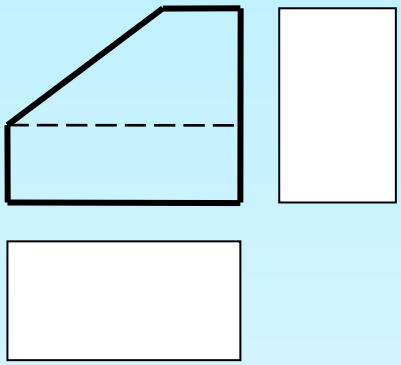

Задачи предполагают вариативность в решении (много решений).

Выполните чертежи

Выполните чертежи деталей, главные виды которых имеют **такой** вид?



1

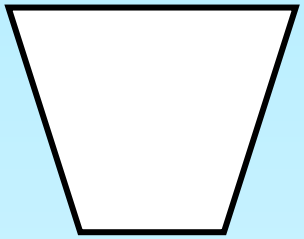

2

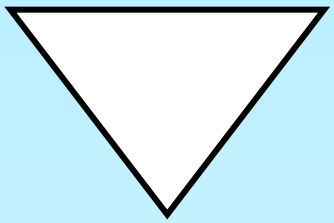

3

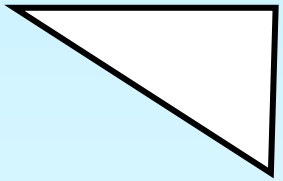

4

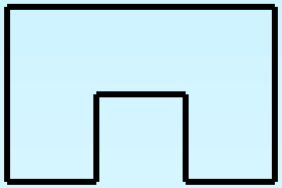

5

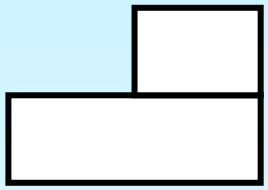

6

Задачи предполагают вариативность в решении (много решений).

Выполните чертежи

Каким может быть вид сверху при заданном виде спереди?

?



?



?

Задачи предполагают вариативность в решении (много решений).



?

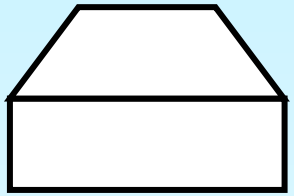

?

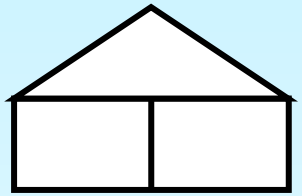

?

Постройте третий вид моделей по двум заданным.







Задачи предполагают вариативность в решении (много решений).

Постройте третий вид моделей по двум заданным. Задачи предполагают вариативность в решении (много решений).

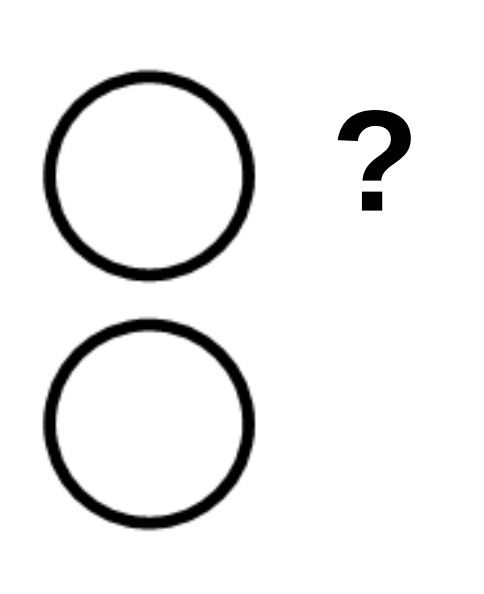





Старая задачка
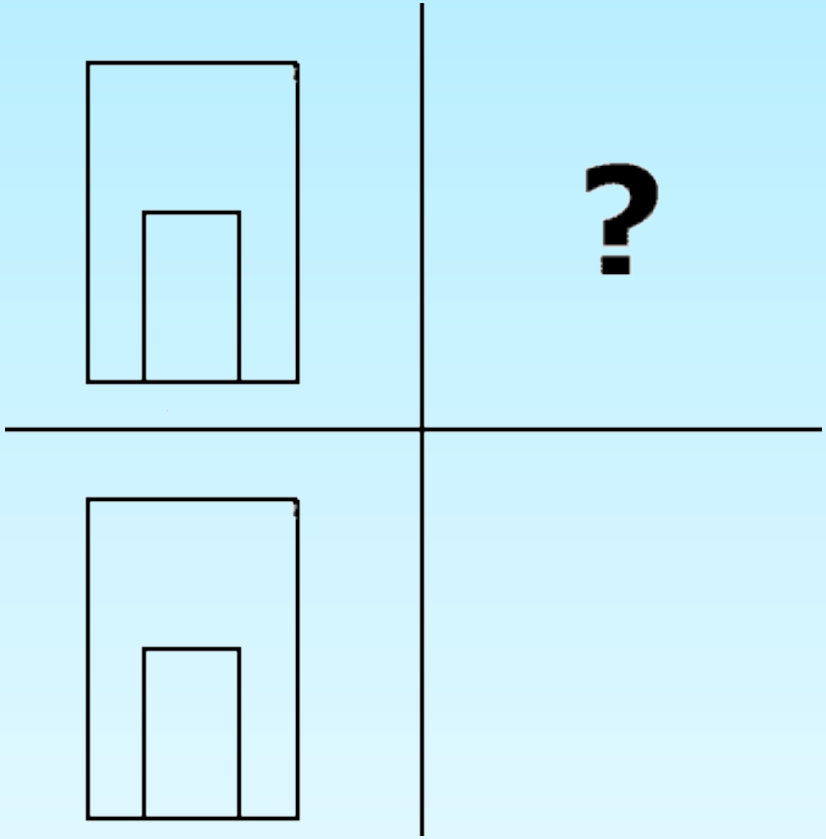
Даны две проекции одной детали – вид спереди и вид сверху. Сможете ли вы начертить вид слева?