Почему?

Какая из двух линеек, изображенных на рисунке **деревянная**, а какая – **стальная**?

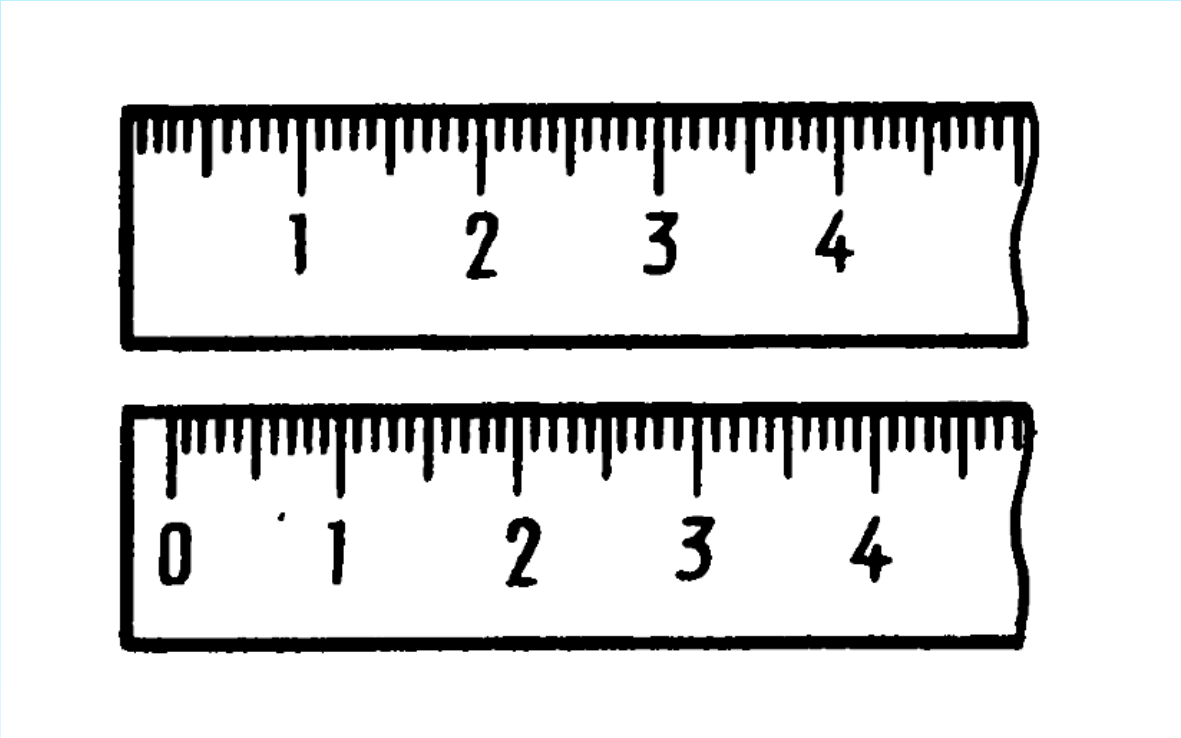

Почему?

Почему коническое ведро делают большим основанием **вверх**, а конический кофейник или кувшин, наоборот, – **вниз**?



Почему?

Перед вами посуда. Почему у бутылки с водой горлышко **уже**, чем у бутылки с молоком?



Почему?

Почему горлышки бидонов изготавливают **разными**? Для чего предназначен бидон с узким горлышком?



Почему?

Почему стол опирается в **четырёх** точках, а предметы, представленные на рисунке – в **трёх**?

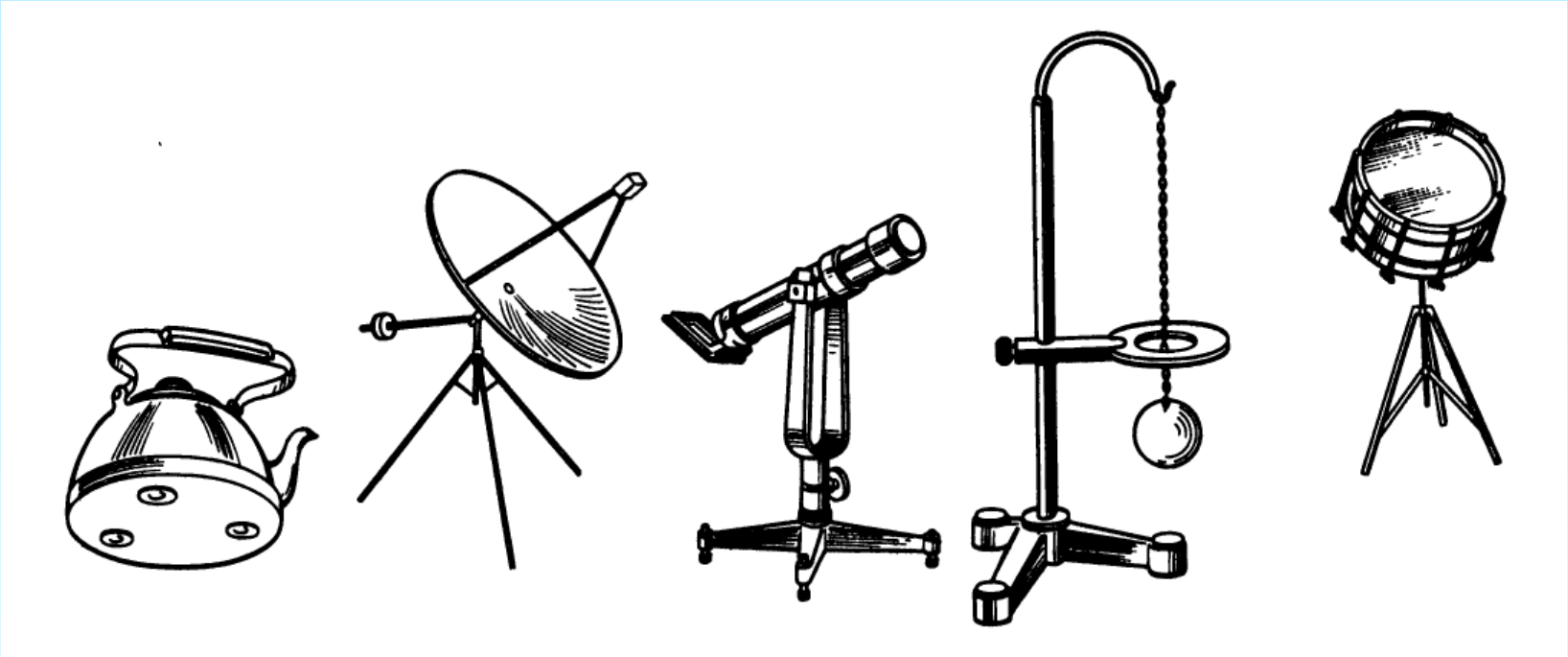

Почему?

Казалось бы, лопата – она и есть лопата.

Но и её конструирование подчиняется определённым правилам. Почему у одной лопаты окончание сделано **прямоугольным**, у другой – **полукруглым**, у третьей - **остроконечным**?

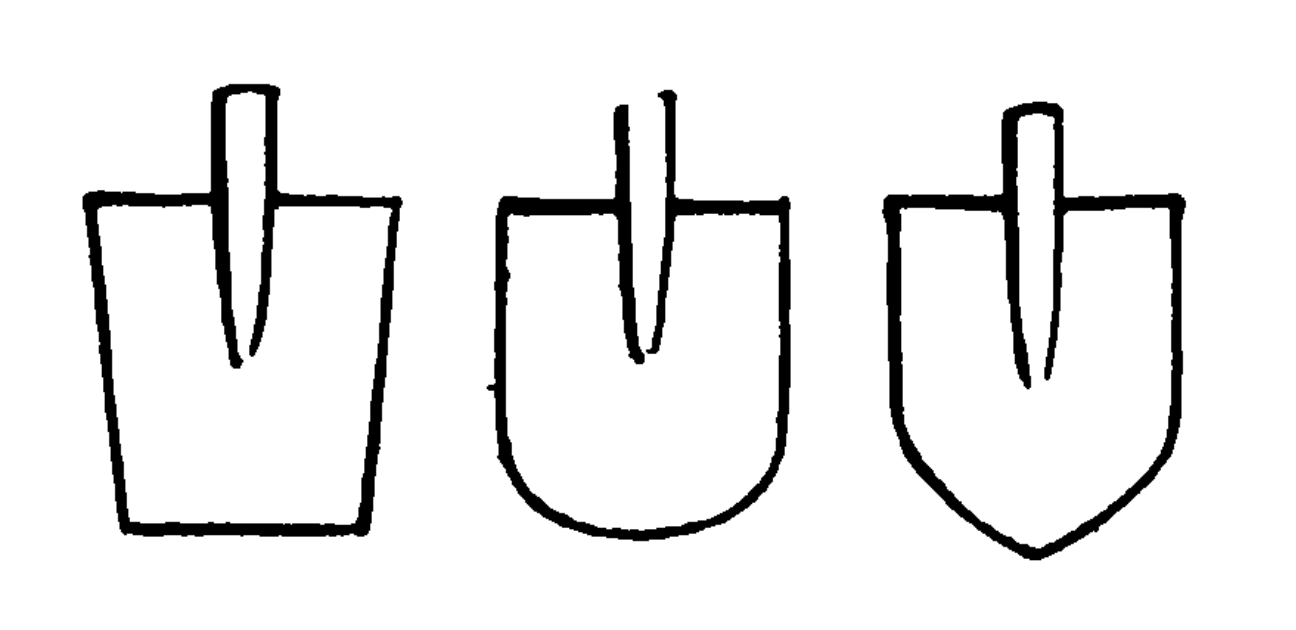

Почему?

Топор совершенствуется с того дня, когда человек впервые взял камень, чтобы разрубить им какой-то предмет. Но одно в топоре остается неизменным — это **криволинейность** лезвия.

Чем это объяснить?